Colegio Benjamín Vicuña Mackenna
Constanza 01650, Rancagua
F: (72) 2266214
nororiente@cormun.cl

Gisella Cornejo Parraguez
Programa de Integración Escolar

GUIA DE APRENDIZAJE : ALGORITMO DE LA SUSTRACIÓN		
Nombre:	Fecha:	Curso: 3° A

OA N° 9	Demostrar que comprende la adición y la sustracción en el ámbito del 0 al 100: › usando un lenguaje cotidiano y matemático para describir acciones desde su propia experiencia › resolviendo problemas con una variedad de representaciones concretas y pictóricas, de manera manual y/o usando software educativo › registrando el proceso en forma simbólica › aplicando los resultados de las adiciones y sustracciones de los números del 0 a 20 sin realizar cálculos › **aplicando el algoritmo de la adición y sustracción sin considerar reserva** › creando problemas matemáticos en contextos familiares y resolviéndolos
Objetivo de la clase	Comprender la sustracción de números de 2 dígitos, mediante el algoritmo convencional, manifestando curiosidad e interés por el aprendizaje de las matemáticas.

Recordemos

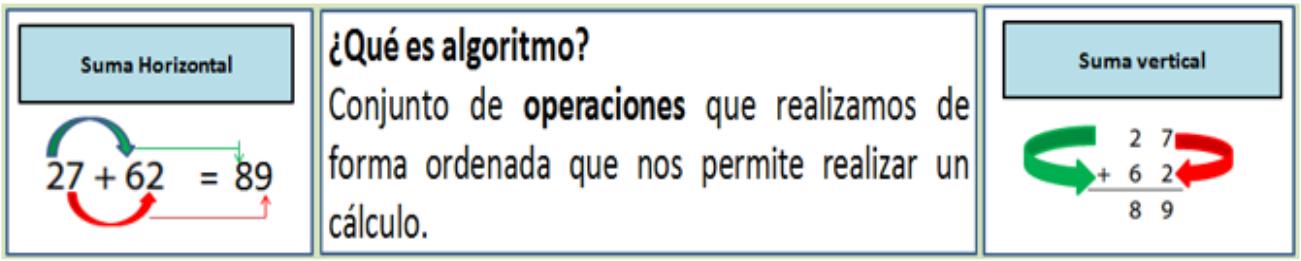

En la clase anterior trabajamos con el algoritmo de la adición, hoy aprenderemos la segunda operación aritmética que la sustracción

Colegio Benjamín Vicuña Mackenna
Constanza 01650, Rancagua
F: (72) 2266214
nororiente@cormun.cl

Gisella Cornejo Parraguez
Programa de Integración Escolar

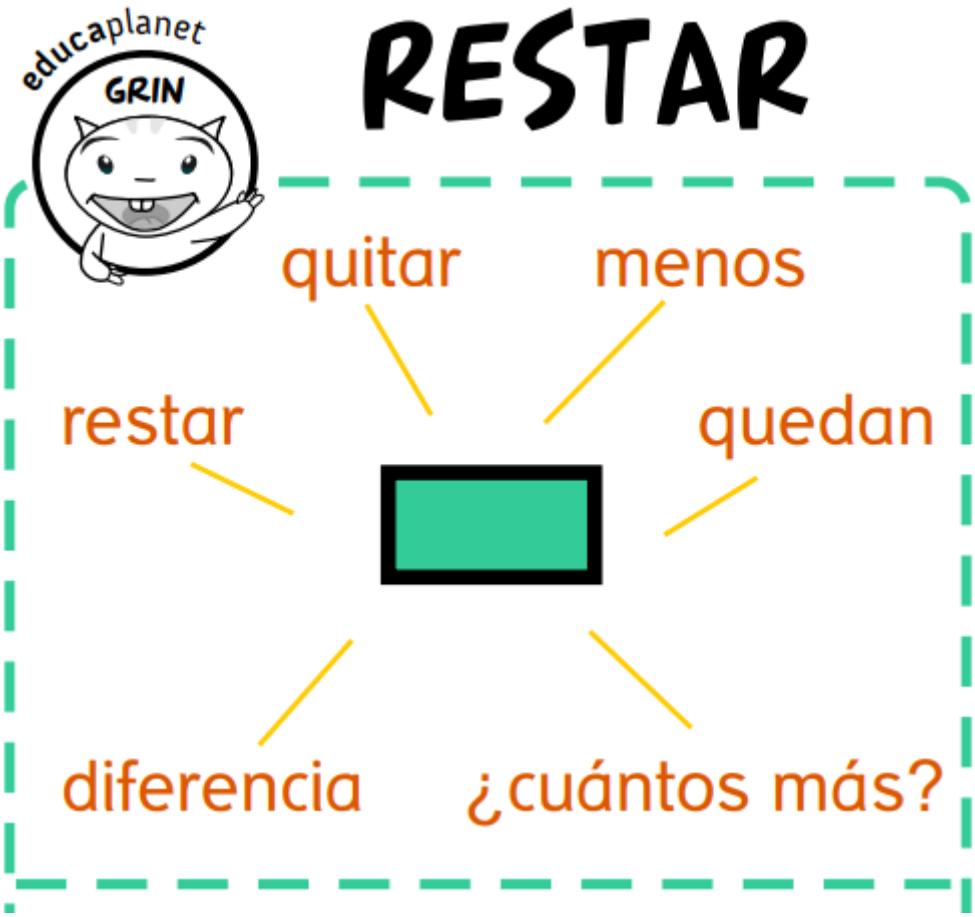

Colegio Benjamín Vicuña Mackenna
Constanza 01650, Rancagua
F: (72) 2266214
nororiente@cormun.cl

Gisella Cornejo Parraguez
Programa de Integración Escolar

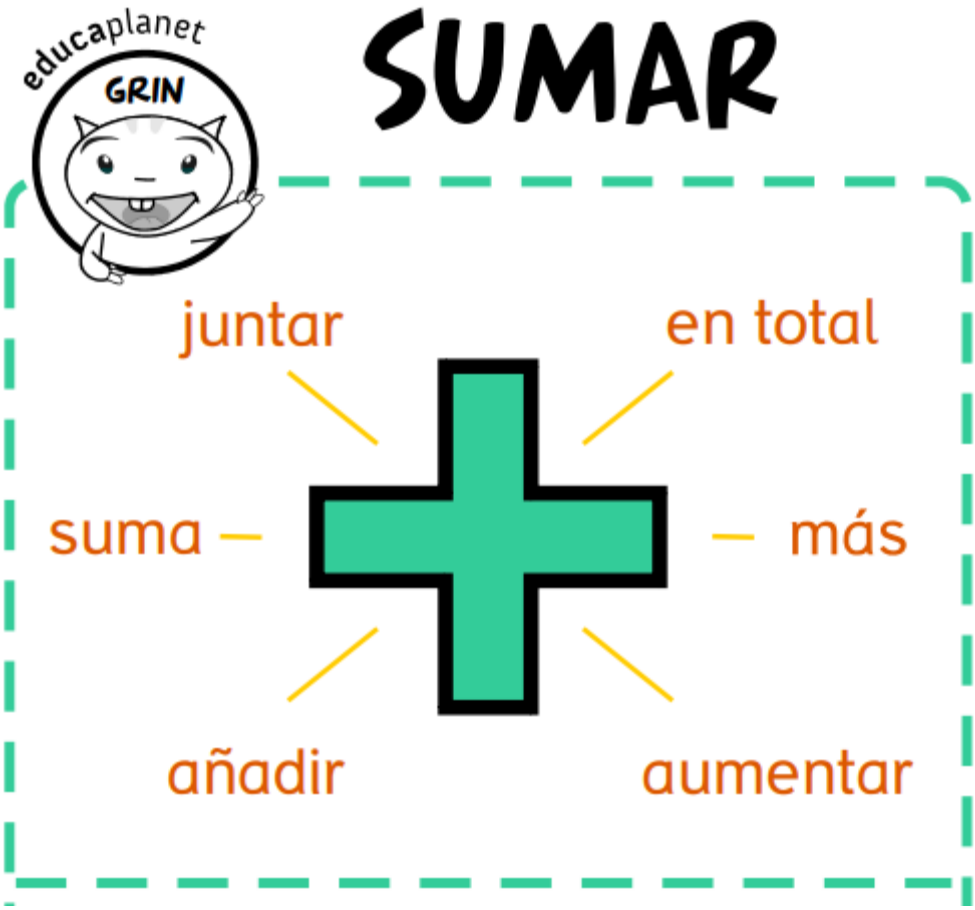

Colegio Benjamín Vicuña Mackenna
Constanza 01650, Rancagua
F: (72) 2266214
nororiente@cormun.cl

Gisella Cornejo Parraguez
Programa de Integración Escolar

1. Resuelve las siguientes sustracciones horizontales.

19 – 3 =

20 – 10 =

17 – 5 =

13 – 6 =

5 – 4 =

15 – 8 =

Colegio Benjamín Vicuña Mackenna
Constanza 01650, Rancagua
F: (72) 2266214
nororiente@cormun.cl

Gisella Cornejo Parraguez
Programa de Integración Escolar

2. Resuelve las siguientes sustracciones verticales.

2 − 1 = ___	5 − 2 = ___	6 − 3 = ___	2 − 2 = ___	4 − 2 = ___	7 − 2 = ___
4 − 2 = ___	9 − 6 = ___	8 − 2 = ___	9 − 2 = ___	6 − 4 = ___	9 − 1 = ___
8 − 4 = ___	7 − 5 = ___	8 − 8 = ___	8 − 5 = ___	8 − 6 = ___	7 − 4 = ___

3. Ahora tú solito realiza las siguientes sustracciones de forma vertical

20 – 18

−		

16 – 3

−		